1 Die Zahlengerade kann auch für die Addition und Subtraktion von Zahlen oder Stecken verwendet werden. Folgende Aufgabe soll mit Hilfe des Zahlenstrahls dargestellt werden.

$$1+3-7=-3$$

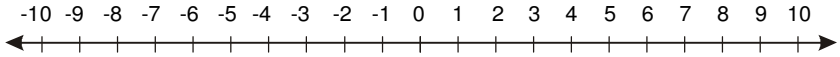

2 Bestimmen Sie die Werte A bis D.

A _____

B _____

C _____

D _____

3 Folgende Aufgabe soll mit Hilfe des Zahlenstrahls dargestellt werden.

$$-5+9-7=$$

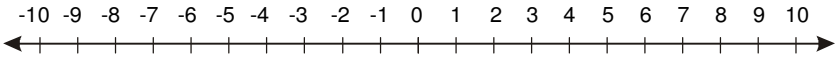

4 Bestimmen Sie die Werte A bis D.

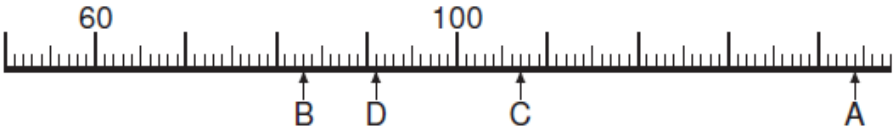

A _____

B _____

C _____

D _____

5 Folgende Aufgabe soll mit Hilfe des Zahlenstrahls dargestellt werden.

$$8-16+10=$$

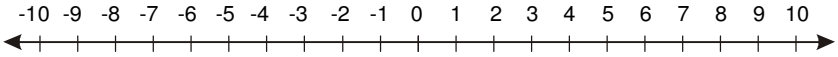

6 Bestimmen Sie die Werte A bis D.

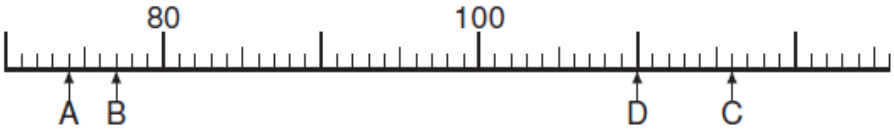

A _____

B _____

C _____

D _____

7 Folgende Aufgabe soll mit Hilfe des Zahlenstrahls dargestellt werden.

$$2-5+6=$$

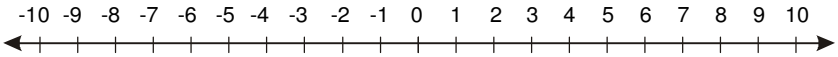

8 Bestimmen Sie die Werte A bis D.

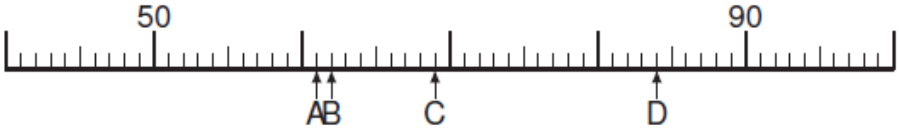

A _____

B _____

C _____

D _____

9 Folgende Aufgabe soll mit Hilfe des Zahlenstrahls dargestellt werden.

$$-5+9-2=$$

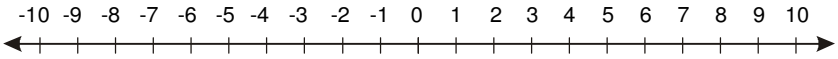

10 Bestimmen Sie die Werte A bis D.

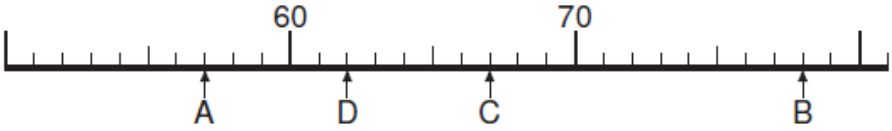

A _____

B _____

C _____

D _____

11 Folgende Aufgabe soll mit Hilfe des Zahlenstrahls dargestellt werden.

$$-\frac{15}{10}+3{,}5-\frac{3}{4}+2{,}75=$$

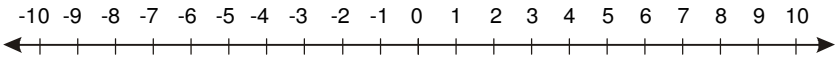

12 Bestimmen Sie die Werte A bis D.

A _____

B _____

C _____

D _____

13 Folgende Aufgabe soll mit Hilfe des Zahlenstrahls dargestellt werden.

$$\frac{3}{4}-\frac{5}{2}+\frac{13}{4}+2{,}5=$$

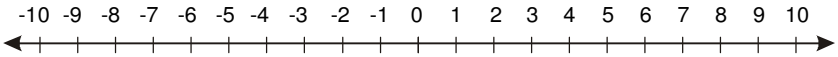

14 Welche Zahlen sind am Zahlenstrahl zu entnehmen?

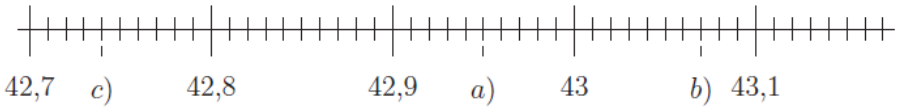

a) _____

b) _____

c) _____

15 Welche Zahlen sind am Zahlenstrahl zu entnehmen?

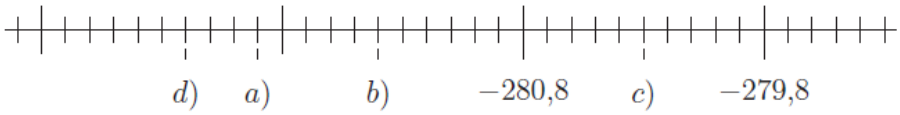

a) _____

b) _____

c) _____

d) _____

16 Welche Zahlen sind am Zahlenstrahl zu entnehmen?

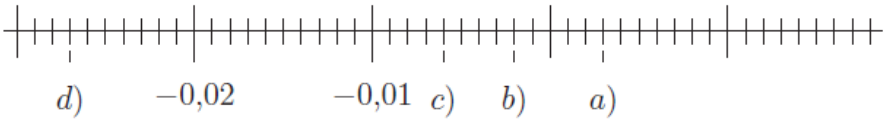

a) _____

b) _____

c) _____

d) _____

17 Welche Bruchzahlen können hier an den x-Stellen des Zahlenstrahles abgelesen werden?

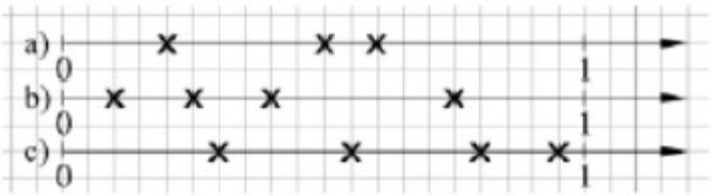

1	_____	5	_____	9	_____
2	_____	6	_____	10	_____
3	_____	7	_____	11	_____
4	_____	8	_____		

18 Welche Zahlen sind am Zahlenstrahl zu entnehmen?

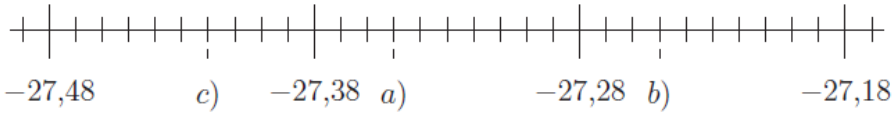

a) _____

b) _____

c) _____

d) _____

19 Welche Zahlen sind am Zahlenstrahl zu entnehmen?

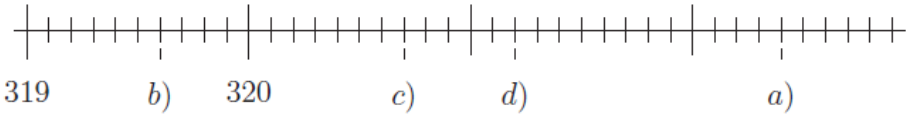

a) _____

b) _____

c) _____

20 Welche Zahlen sind am Zahlenstrahl zu entnehmen?

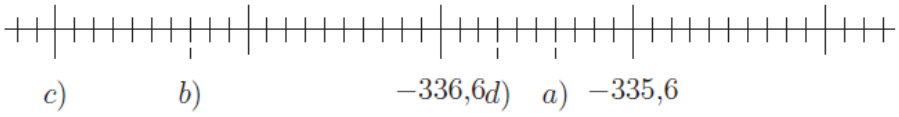

a) _____

b) _____

c) _____

d) _____

21 Welche Zahlen sind am Zahlenstrahl zu entnehmen?

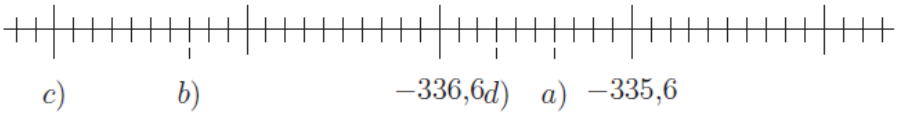

a) _____

b) _____

c) _____

d) _____

22 Welche Zahlen sind am Zahlenstrahl zu entnehmen?

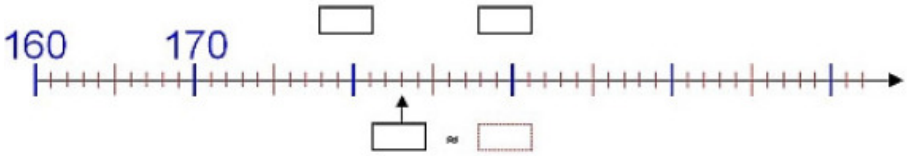

1 _____

2 _____

3 _____

23 Tragen Sie die entsprechenden Werte in die Kasten ein!